## 3. ЗАДАЧИ ЗА НАБЛЮДАТЕЛНОСТ

**1.** Избери следващото цвете в редицата.



?



1 2 3 4

**2.** Попълни празните квадратчета, като разбереш правилото от образеца.

*Образец*

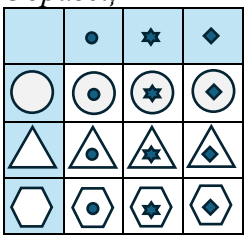

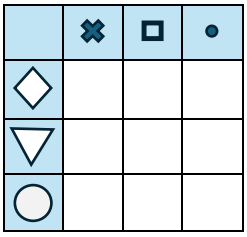

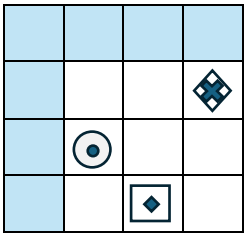

**3.** Избери правилната фигура за редицата.



а)  б)  в)  г)  д) 

**4.** Колко квадратчета трява още да се оцветят, за да станат сините колкото белите?

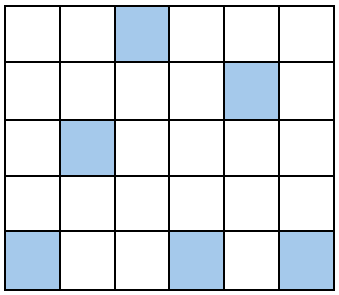

**5.** Колко квадратчета още трябва да се оцветят, за да станат сините с 6 повече от белите?

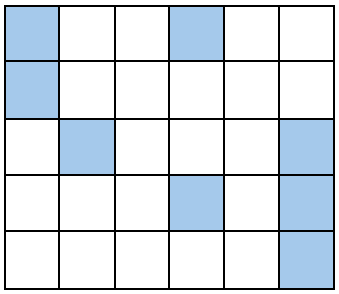

**6.** Къде ще стигне калинката, ако променя посоката в зависимост от растението, на което кацне?

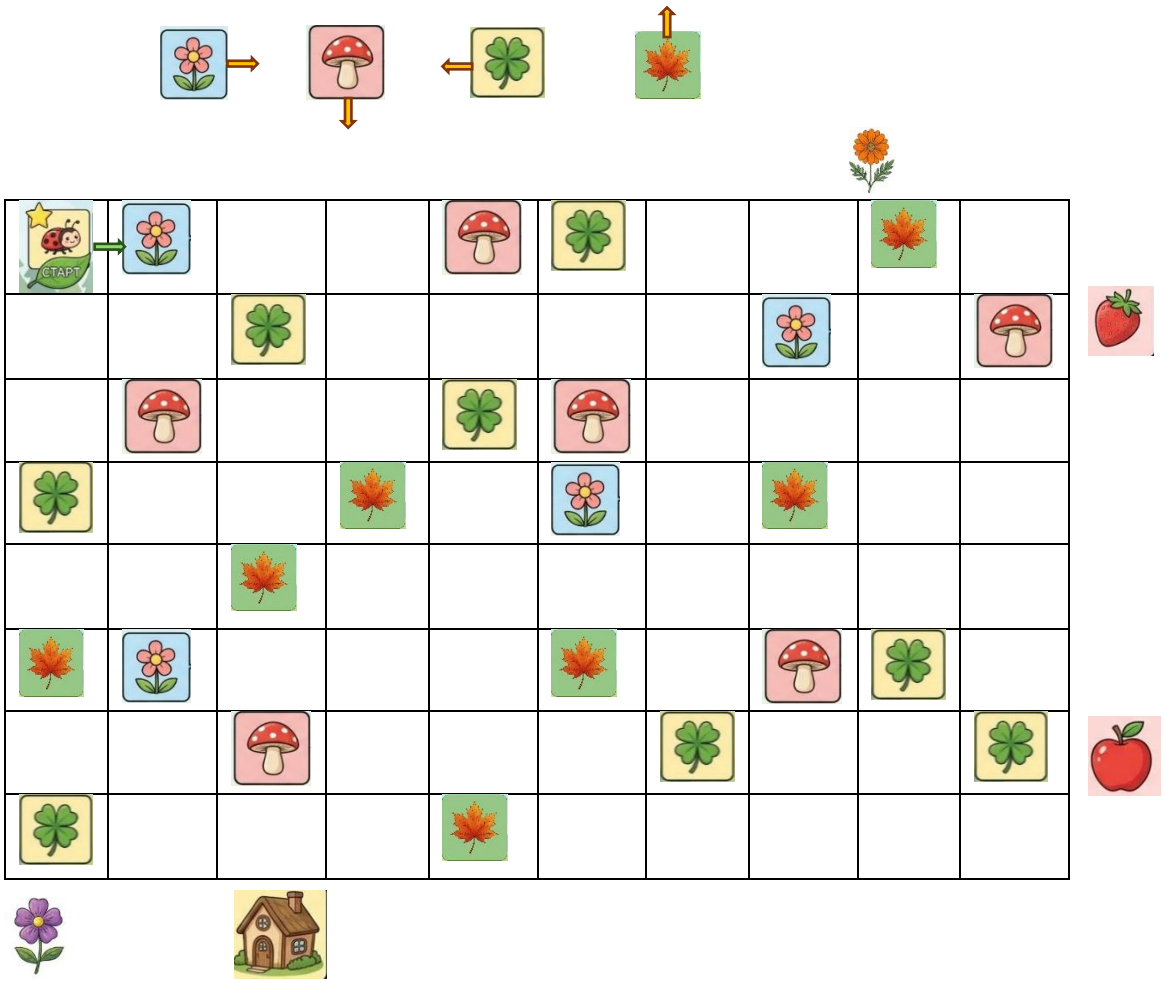


**7.** Отбележи в коя редица и в коя колона са фигурите.

| | А | Б | В | Г | Д |
|---|---|---|---|---|---|
| 1 | | ✈ | | | |
| 2 | | | | 🍎 | |
| 3 | 🎈 | | | | |
| 4 | | | 🦕 | | |
| 5 | | | | | 🌲 |
| 6 | | 🦋 | | | |

| | |
|---|---|
| 1 | Б |
| | |
| | |
| | |
| | |
| | |

За любознателните. 😊 **3. ЗАДАЧИ ЗА НАБЛЮДАТЕЛНОСТ**

Отговори:

1. 

2. 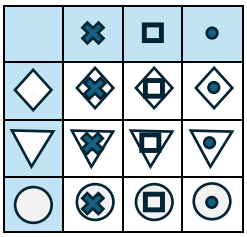

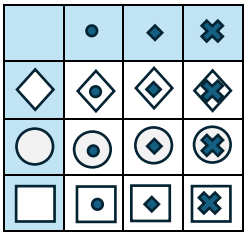

3. 

4. Девет квадратчета

5. Десет квадратчета

6. 

7. 2-Г, 3-А, 4-В, 5-Д, 6-Б