3. ЗАДАЧИ ЗА НАБЛЮДАТЕЛНОСТ

1. Избери следващото цвете в редицата.



?



1 2 3 4

2. Попълни празните квадратчета, като разбереш правилото от образеца.

Образец

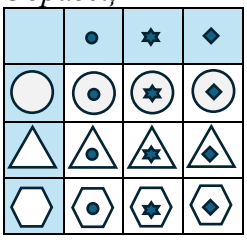

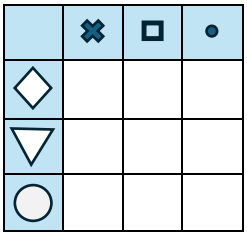

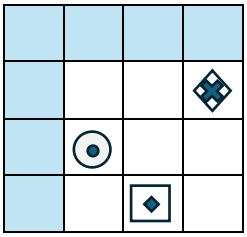

3. Избери правилната фигура за редицата.



а)  б)  в)  г)  д) 

4. Колко квадратчета трява още да се оцветят, за да станат сините колкото белите?

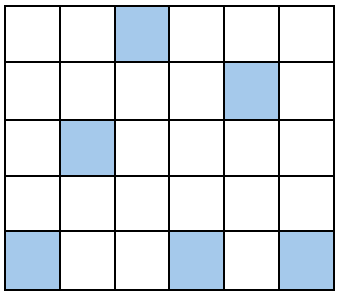

5. Колко квадратчета още трябва да се оцветят, за да станат сините с 6 повече от белите?

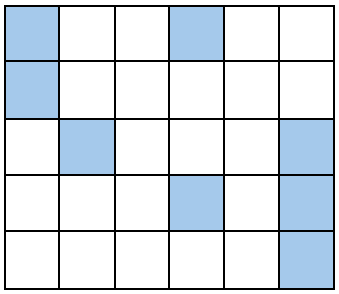

6. Къде ще стигне калинката, ако променя посоката си в зависимост от растението, на което кацне?

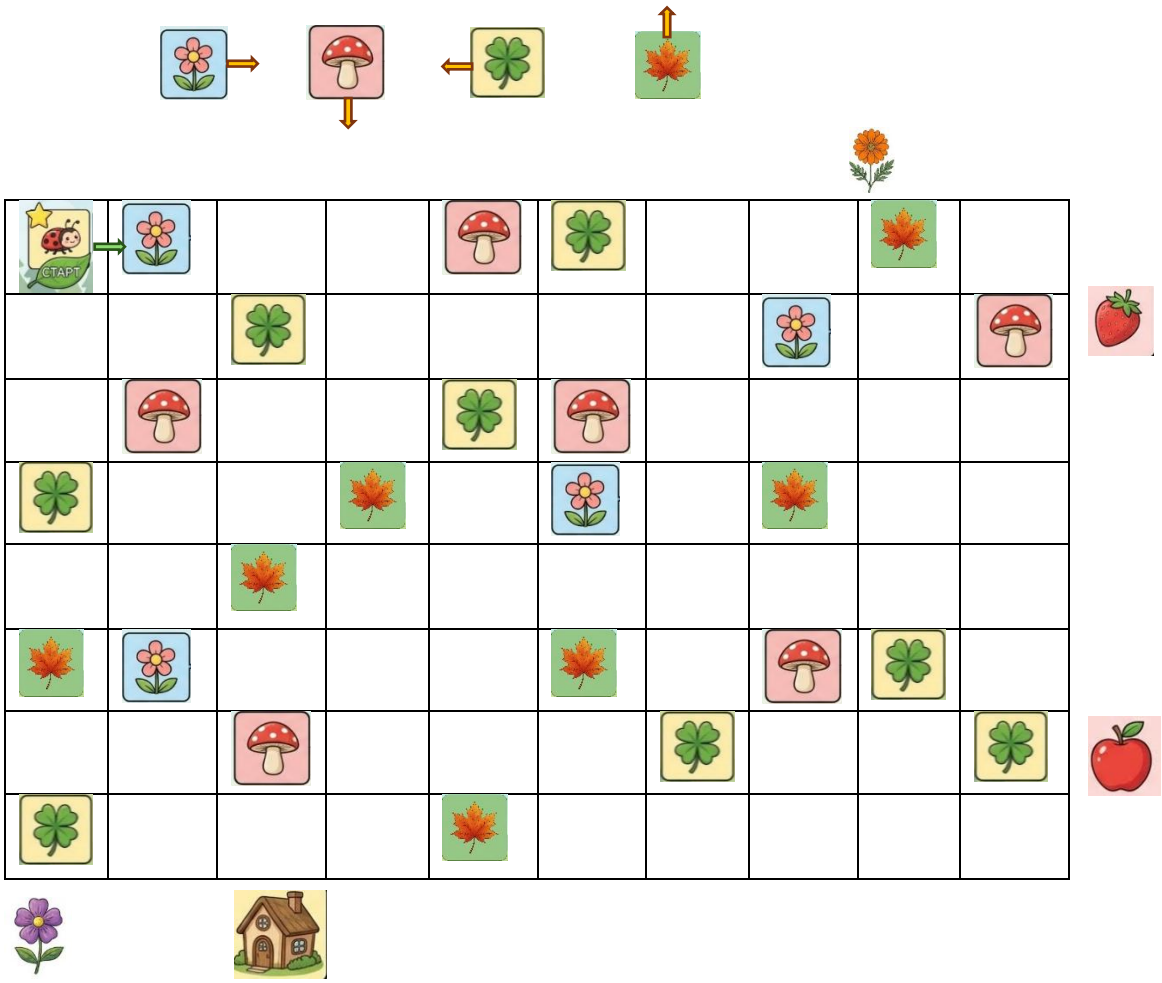

7. Отбележи в коя редица и в коя колона са фигурите.

	А	Б	В	Г	Д
1					
2					
3					
4					
5					
6					

1	Б

Отговори:

1. 

2.

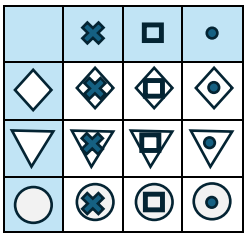

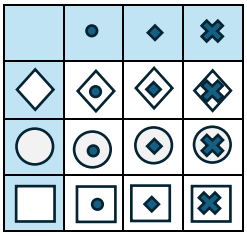

3. 

4. Девет квадратчета

5. Десет квадратчета

6. 

7. 2-Г, 3-А, 4-В, 5-Д, 6-Б